MATEMÁTICAS
Dossier 18 al 22 mayo



DÍA 1 → Resolvemos problemas

Páginas 172/173

Es momento de poner nuestro cerebro en marcha, y qué mejor forma que comenzar con unos problemas súper divertidos.

Tenemos que recordar varias cosas antes de empezar, de esa forma, nos aseguraremos que siempre vamos a conseguir resolver estos enigmas sin ningún problema:

HERRAMIENTAS DEL BUEN RESOLUTOR DE PROBLEMAS

- Leemos bien el enunciado.
- Siempre podemos fijarnos en el dibujo que nos aparece, PUEDE DARNOS PISTAS.
- Tenemos que averiguar qué operación vamos a tener que usar, si una SUMA o RESTA.
- Podemos escribir los datos que tendremos que trabajar.
- Colocamos los números de forma correcta para realizar la operación.
- No nos podemos olvidar de escribir el signo de la operación.
- Cuando tenemos el resultado, no nos olvidamos de escribir de qué estamos hablando, si son manzanas, niños…

Una vez que hemos hecho este repaso, es hora de ponernos manos a la obra, ¿estáis listos?

Resuelvo problemas

Comprobamos

1 ¿Cuántos puntos ha conseguido el equipo azul?

Una persona ha conseguido ____ puntos.

La otra persona ha conseguido ____ puntos.

▶ El equipo azul ha conseguido ____ puntos.

2 ¿Cuántos disfraces de animales hay?

En un perchero hay ____ disfraces.

En el otro, ____ disfraces.

▶ En total hay ____ disfraces de animales.

anayaeducacion.es Practica más problemas en el banco de recursos.

1 En la biblioteca de la clase hay 38 libros y traen 15 más. ¿Cuántos libros hay ahora?

Hay ☐ libros.

Traen ☐ libros más.

▶ Ahora hay ☐ libros.

2 En una sala de cine hay 43 niñas y 39 niños. ¿Cuántos espectadores hay en total?

Hay ☐ niñas.

Hay ☐ niños.

▶ Hay ☐ espectadores en total.

Descargar

3 Sara ha hecho un collar con 57 bolas grises y 23 blancas. ¿Cuántas bolas grises más que blancas tiene el collar?

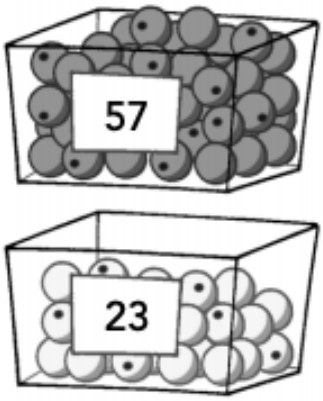

Bolas grises: ☐

Bolas blancas: ☐

▶ Tiene ☐ bolas grises más que blancas.

DÍA 2 → ¿Qué he aprendido?

Página 176

¿Estáis seguros de todo lo que hemos trabajado en esta unidad? ¡Pues vamos a comprobarlo! Aquí os dejo una serie de actividades donde vamos a repasar todo lo visto hasta ahora. Ánimo.

Qué he aprendido

1 Resuelve estas sumas.

1 + 2 + 3 = ☐ 5 + 5 + 5 = ☐ 2 + 4 + 6 = ☐

2 Calcula.

1 9	2 5	4 2	1 6	3 7
+ 6 7	+ 5 6	+ 1 8	+ 5 6	+ 3 3
☐	☐	☐	☐	☐

3 ¿Cuáles de estas figuras pueden rodar? Rodéalas.

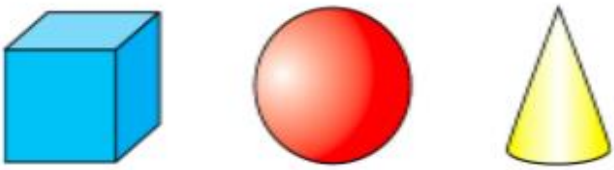

4 Jorge ha horneado 7 galletas de chocolate, 2 de fresa y 6 de manzana. ¿Cuántas galletas ha hecho en total?

chocolate ☐
fresa ☐
manzana ◌ ☐
☐

▶ Ha hecho ☐ galletas en total.

Refuerzo

DÍA 3 → Sumas con llevadas

Antes de finalizar nuestro dossier semanal, vamos a hacer algunas sumas con llevadas, de esa forma nos aseguraremos de haber adquirido a la perfección su forma de resolución.

36 + 97 =	94 + 35 =	97 + 96 =	87 + 72 =
66 + 94 =	71 + 33 =	37 + 63 =	77 + 33 =
84 + 56 =	68 + 25 =	87 + 30 =	12 + 67 =
20 + 37 =	34 + 35 =	92 + 34 =	91 + 19 =

16 + 42	13 + 64	64 + 22	72 + 37
44 + 13	66 + 22	14 + 63	89 + 10
48 + 11	33 + 40	55 + 14	37 + 12
40 + 35	11 + 26	90 + 5	82 + 3